Rechendreiecke

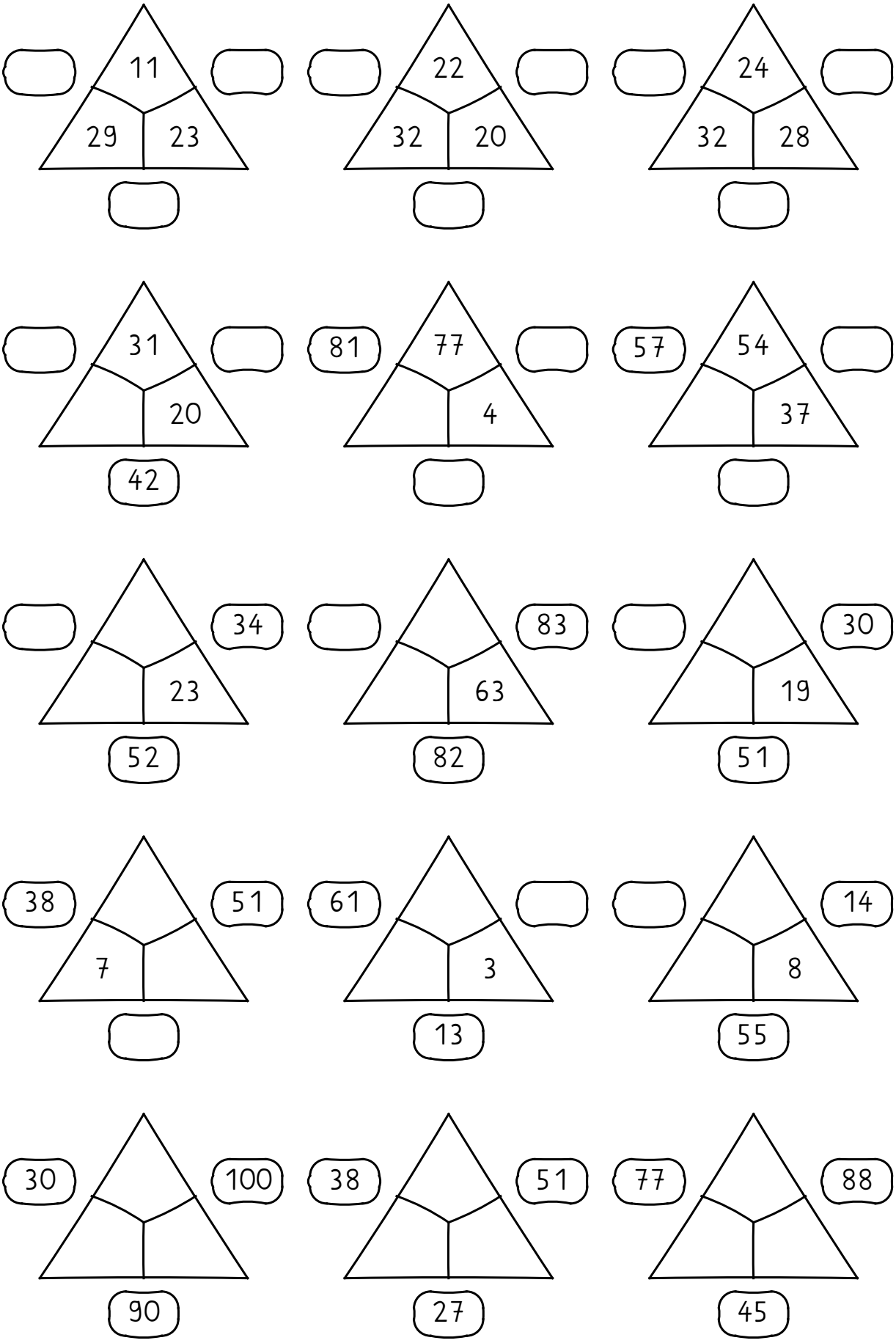

Addition

69 + 4 = ____	15 + 44 = ____	4 + 88 = ____
70 + 4 = ____	20 + 44 = ____	5 + 88 = ____
71 + 4 = ____	25 + 44 = ____	6 + 88 = ____
72 + 4 = ____	30 + 44 = ____	7 + 88 = ____

9 + 84 = ____	68 + 18 = ____	6 + 24 = ____
10 + 84 = ____	68 + 19 = ____	6 + 34 = ____
11 + 84 = ____	68 + 20 = ____	6 + 44 = ____
12 + 84 = ____	68 + 21 = ____	6 + 54 = ____

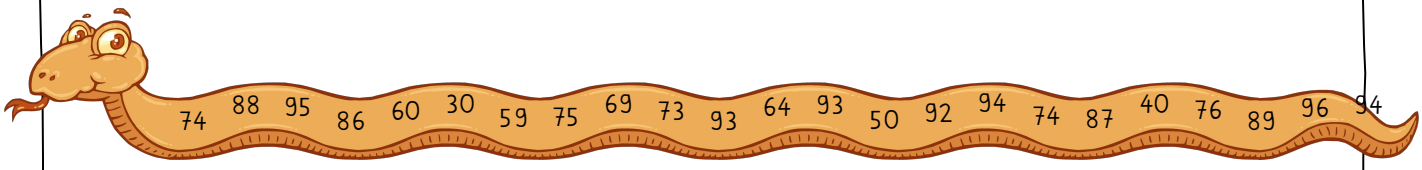

53 + 13 = ____	3 + ____ = 12	____ + 28 = 54
73 + 27 = ____	21 + ____ = 55	____ + 29 = 95
88 + 12 = ____	63 + ____ = 79	____ + 32 = 93
7 + 87 = ____	72 + ____ = 91	____ + 76 = 92

41 + ____ = 45	72 + ____ = 88	____ + 22 = 100
____ + 32 = 100	77 + 2 = ____	57 + ____ = 89
89 + 7 = ____	____ + 2 = 43	24 + ____ = 30
14 + ____ = 53	6 + 16 = ____	____ + 3 = 57

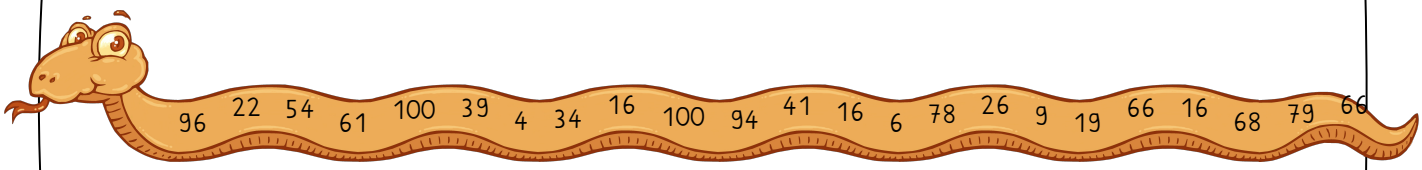

Muster fortsetzen

Zeichne die Ostereier weiter und male sie an.





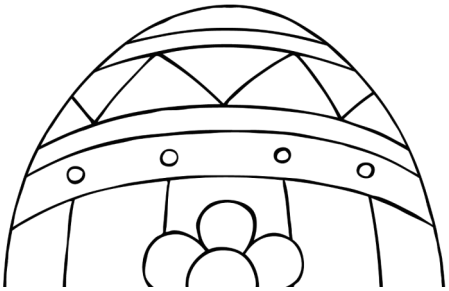

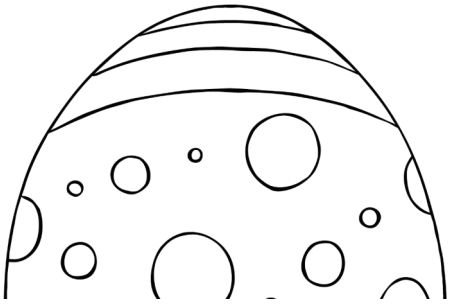

Kombinatorik

1 Der Osterhase möchte immer zwei Eier in ein Nest legen. Jedes Nest soll **anders** aussehen. Der Osterhase malt ein Ei in einer Farbe an. Er hat blaue, grüne und gelbe Farben.

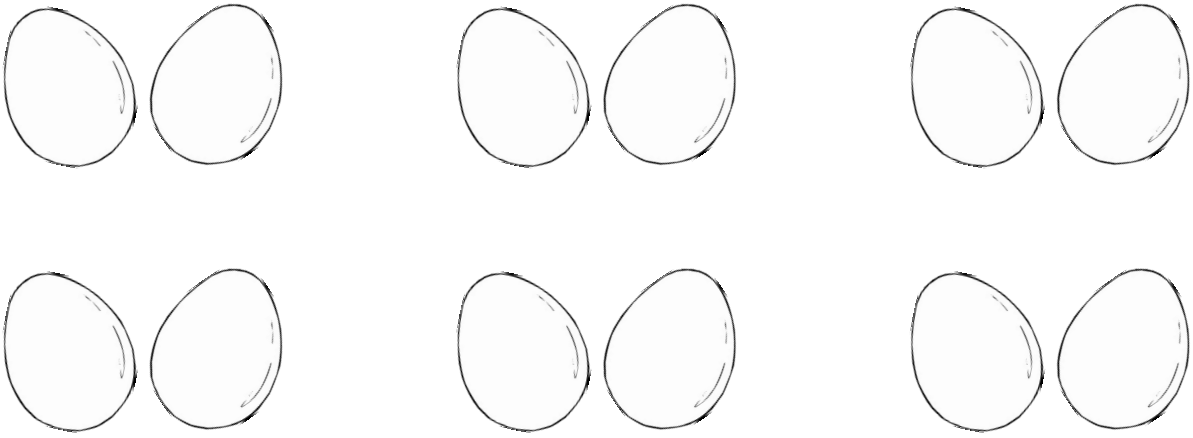

2 Der Osterhase möchte immer vier Eier in ein Nest legen. Jedes Nest soll **anders** aussehen. Der Osterhase malt ein Ei in einer Farbe an. Er hat rote und lila Farben.

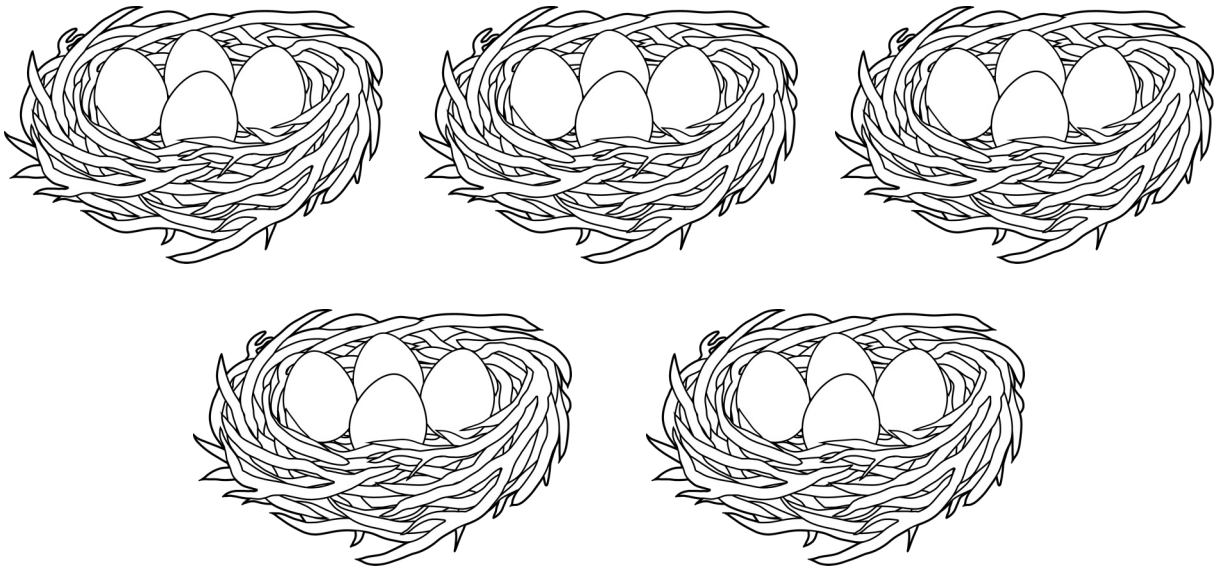

Subtraktion

1 Rechne zurück zum Zehner.

17 - 7 = ☐	29 - 9 = ☐	15 - 5 = ☐
38 - 8 = ☐	71 - 1 = ☐	88 - 8 = ☐
63 - 3 = ☐	56 - 6 = ☐	62 - 2 = ☐
45 - 5 = ☐	24 - 4 = ☐	39 - 9 = ☐

16 - ☐ = 10	23 - ☐ = 20	66 - ☐ = 60
45 - ☐ = 40	87 - ☐ = 80	29 - ☐ = 20
34 - ☐ = 30	14 - ☐ = 10	52 - ☐ = 50
79 - ☐ = 70	96 - ☐ = 90	75 - ☐ = 70

2 Rechne zurück zum Zehner, dann weiter.

1	5	-	6	=		
1	5	-	5	=	1	0
1	0	-	1	=		9

3	4	-	9	=		
3	4	-	4	=		
		-	5	=		

5	2	-	4	=		
5	2	-	2	=		
		-	2	=		

5	7	-	8	=		
5	7	-	7	=		
		-	1	=		

4	4	-	6	=		
4	4	-	4	=		
		-	2	=		

8	2	-	7	=		
8	2	-	2	=		
		-	5	=		

9	2	-	3	=		
		-		=		
		-		=		

4	5	-	8	=		
		-		=		
		-		=		

2	7	-	9	=		
		-		=		
		-		=		

3	4	-	5	=		

1	2	-	9	=		

6	3	-	7	=		

Zahlenreihen

1

1 2 3 ◯ ◯

2

1 ◯ ◯ 4 5 6

3

2 3 4 ◯ ◯

4

1 ◯ 3 4 5

5

◯ ◯ 3 4 5 ◯

6

◯ 3 4 5 ◯

	2	

	5	

	3	

1		

		6

		4

2			

		4	

		5	

	2		

Zahlzerlegung

Wie viel ist das?

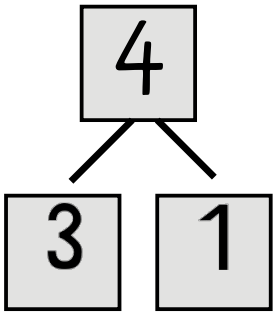

Das sind 4 Sterne.
Drei sind rot.
Einer ist grün.

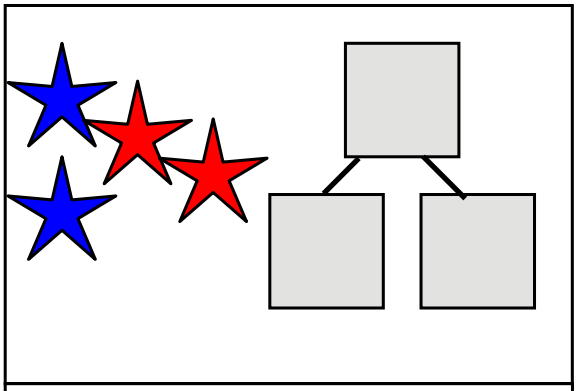

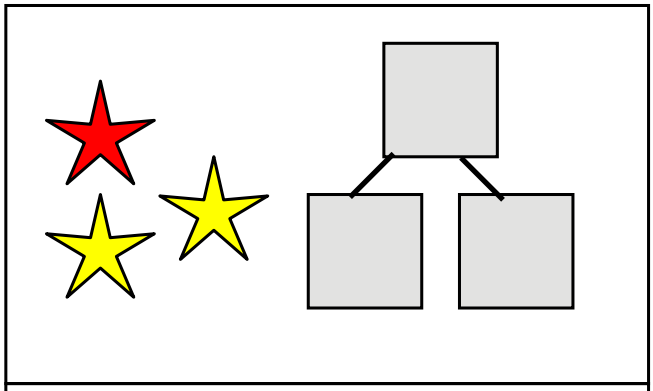

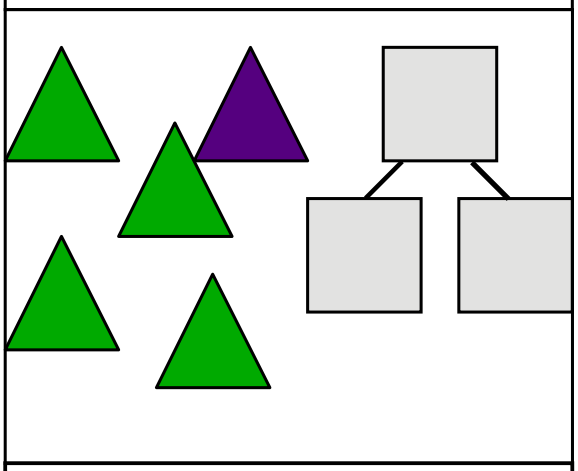

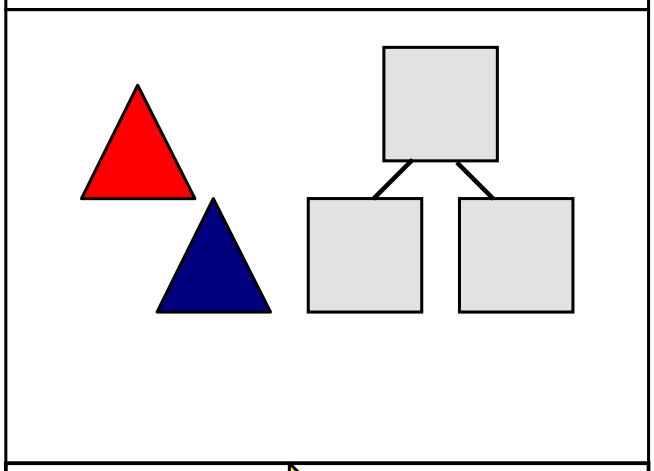

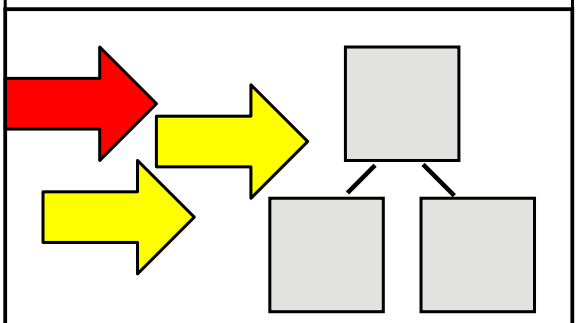

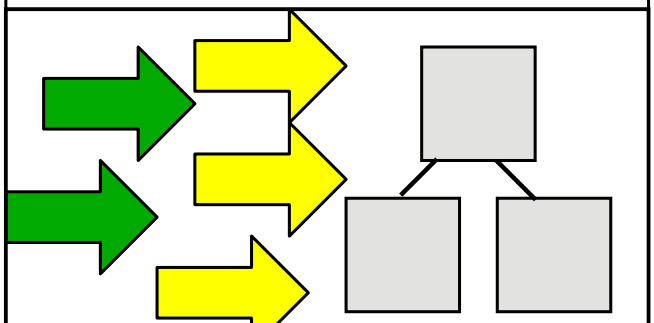

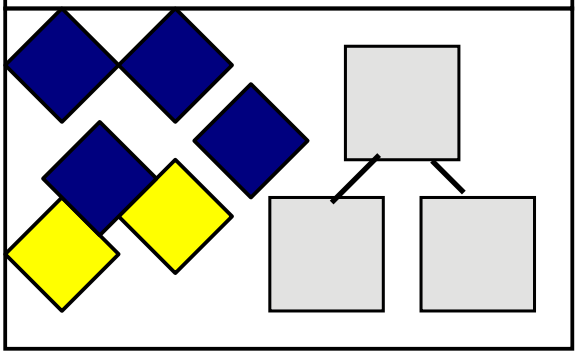

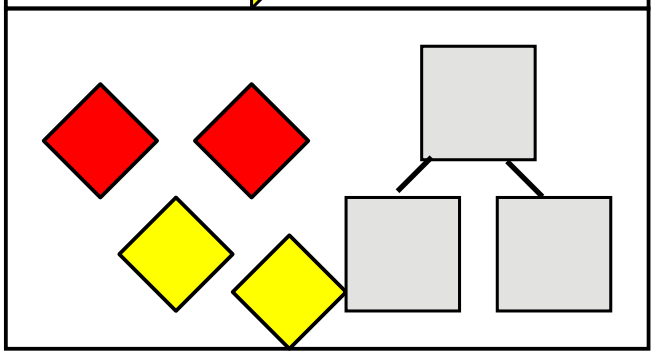

Rechnen mit Geld

Schreibe die Geldbeträge auf die Linie.

_____ ct

_____ ct

_____ ct

_____ ct

_____ ct

_____ ct

_____ ct

_____ ct

_____ ct

_____ ct

_____ ct

_____ ct

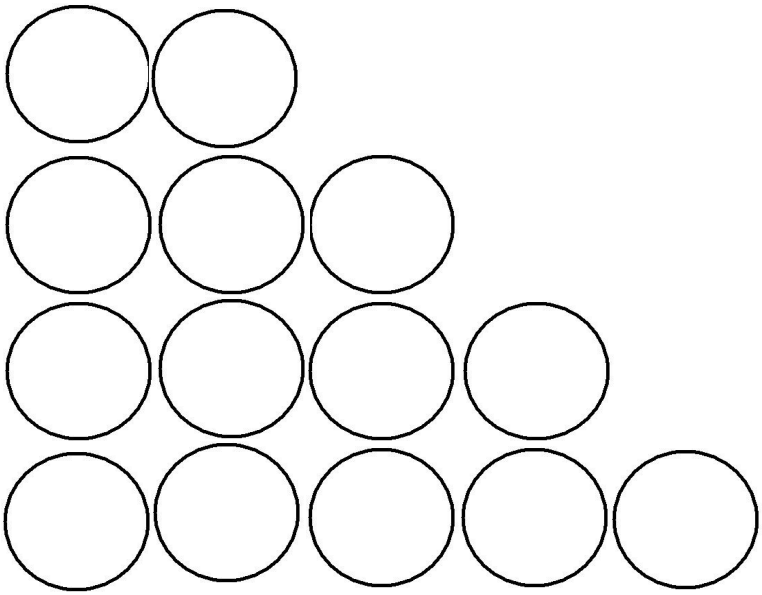

Addition bis 20

3 + 5 =	6 + = 15	20 - 6 =
4 + 2 =	9 + = 16	12 - 8 =
8 + 3 =	6 + = 12	16 - 6 =
7 + 6 =	12 + = 18	19 - 5 =
9 + 5 =	11 + = 19	13 - 6 =

18 - = 12
16 - = 8
14 - = 6
12 - = 8
11 - = 4



6 + 12 =	10 + = 22	- 8 = 12
4 + 14 =	8 + = 20	- 4 = 7
8 + 11 =	+ 11 = 19	+ 3 = 13
3 + 16 =	+ 8 = 14	9 + = 14
2 + 12 =	13 + 8 =	19 - = 8

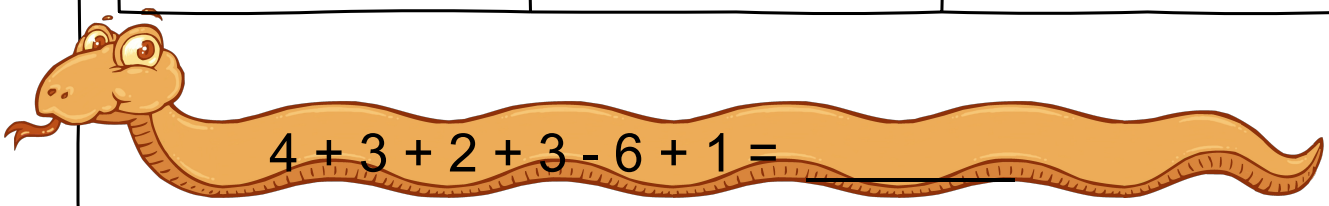

4 + 3 + 2 + 3 - 6 + 1 = _____

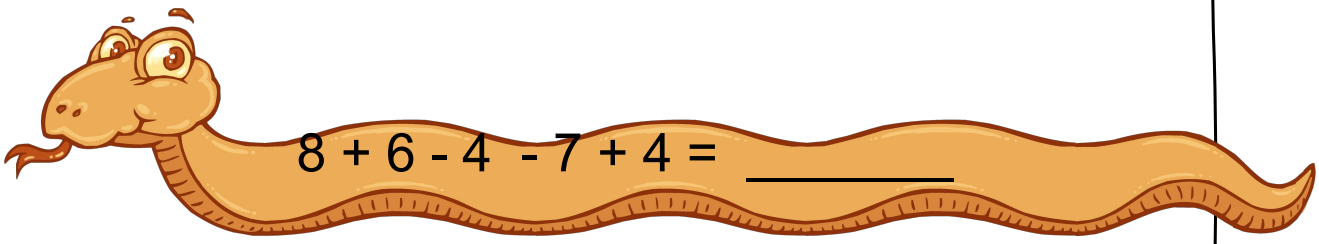

8 + 6 - 4 - 7 + 4 = _____

Herr Jakob - Bildergeschichte







<u>Aufgabe:</u> Schreibe zu diesen Bildern eine Geschichte.

- Überlege dir eine Überschrift.
- Achte darauf, am Satzende einen Punkt zu setzen.
- Beachte die richtige Groß - und Kleinschreibung und gelernte Rechtschreibregeln.
- .

Lesen und Fragen beantworten

Dennis, der Pokalheld

Dennis ist ein ganz großer Fußballfan. Sein größter Traum ist es, einmal in seinem Leben einen Pokal in den Händen zu halten. Im Radio läuft gerade ein Quiz. Dennis hört, dass der Gewinner bei einem Fußballturnier mit Profis mitspielen darf. Dennis saust zu seiner Mutter. "Können wir dort bitte anrufen, ich weiß auch die Antwort", ruft er aufgeregt. Mama erlaubt es ihm. Dennis freut sich riesig, weil er am Turnier teilnehmen darf. Noch mehr freut er sich, als er das Spiel mit seiner Mannschaft gewinnt. Die Erinnerung an den Moment, als er den Pokal in den Händen hielt, hängt nun als Foto an der Wand.

1 Kreuze die richtige Antwort an.

	Stimmt	Stimmt nicht
Dennis mag Handball.	☐	☐
Im Radio läuft gerade ein Lied.	☐	☐
Dennis hat einen Pokal gewonnen.	☐	☐
Es gibt ein Foto vom Pokal.	☐	☐
Dennis kennt die Antwort nicht.	☐	☐

2 Lies genau. Setze die richtigen Wörter aus dem Text ein.

Dennis ist ein großer Fan von _____ .

Im Radio läuft ein _____ .

Dennis fragt seine _____ ,

ob er anrufen darf. Sie erlaubt es ihm.

3 Welcher Satz passt zum Text? Verbinde.

Dennis größter Traum ist es, ○

- ○ einmal einen Hund zu haben.
- ○ einmal einen Pokal in den Händen zu halten.
- ○ einmal ein Fußballspiel zu gewinnen.

Im Radio wird gerade ○

- ○ ein lustiger Witz gespielt.
- ○ sehr laute Musik gespielt.
- ○ ein Quiz gespielt.

Dennis freut sich riesig, weil ○

- ○ er Geburtstag hat.
- ○ er den Preis gewonnen hat.
- ○ sein Freund Karl zu Besuch ist.

4 Kreuze die richtige Antwort an.

Wie heißt der Junge, der den Pokal halten darf?

☐ David ☐ Demian ☐ Dennis

Was möchte Dennis einmal in seinem Leben in seinen Händen halten?

☐ eine Katze ☐ einen Pokal ☐ einen Ball

Wer erlaubt Dennis, beim Radio anzurufen?

☐ seine Oma ☐ sein Vater ☐ seine Mutter

Welches Erinnerungsstück hat Dennis am Ende?

☐ ein Foto ☐ eine Krone ☐ ein Kuscheltier

Berichte von den letzten zwei Wochen



Lies den Text und schreibe oder male Deine Antworten auf der nächsten Seite auf.

Was hast Du in der letzten Woche zu Hause gemacht?

Auf welche guten Ideen bist Du gekommen?

Was hat Dir am meisten Spaß gemacht?

Was war schwierig?

Was hast Du gut hinbekommen, obwohl es echt schwierig war?





Lies den Text und schreibe oder male Deine Antworten auf der nächsten Seite auf.

Was hast Du am meisten vermisst?

Was wirst Du als Erstes machen, wenn Du wieder rausgehen darfst?

Wie findest Du es, dass nun erstmal alle Schulen und Kitas geschlossen bleiben müssen?



English

Bitte schaue dir für diese Aufgabe auf youtube ein Video an!

https://www.youtube.com/watch?v=6MGRkUlFZws

1 Link correctly !

It is snowy.

It is windy.

It is sunny.

It is rainy.

2 Schaue aus dem Fenster: Wie ist das Wetter gerade bei dir ?

It is _____

Draw !

Brücken –
und was sie stabil macht.

Aufgaben:

1. Lies dir die Infokästen über die verschiedenen Brückenarten durch.
2. Verbinde die Texte mit den passenden Bildern.

Eine Balkenbrücke hat ein oder mehrere Balkentragwerke.

Aquädukte sind wasserführende Brücken und gelten als bedeutende Bauwerke der Antike.



Bogenbrücken weisen einen oder mehrere Bögen auf und zählen zu den ältesten Brückenformen.



Fachwerkbrücken dienen häufig als Verkehrswege und werden meist aus Stahl und Holz gebaut.

Die Golden Gate Bridge ist eine bekannte Hängebrücke in San Francisco (Amerika).



Bei einer Hängebrücke dienen Tragseile als Aufhängung.

Rahmenbrücken gehören zu den Balkenbrücken, wobei Über- und Unterbau einen Rahmen bilden.

Brückenarten
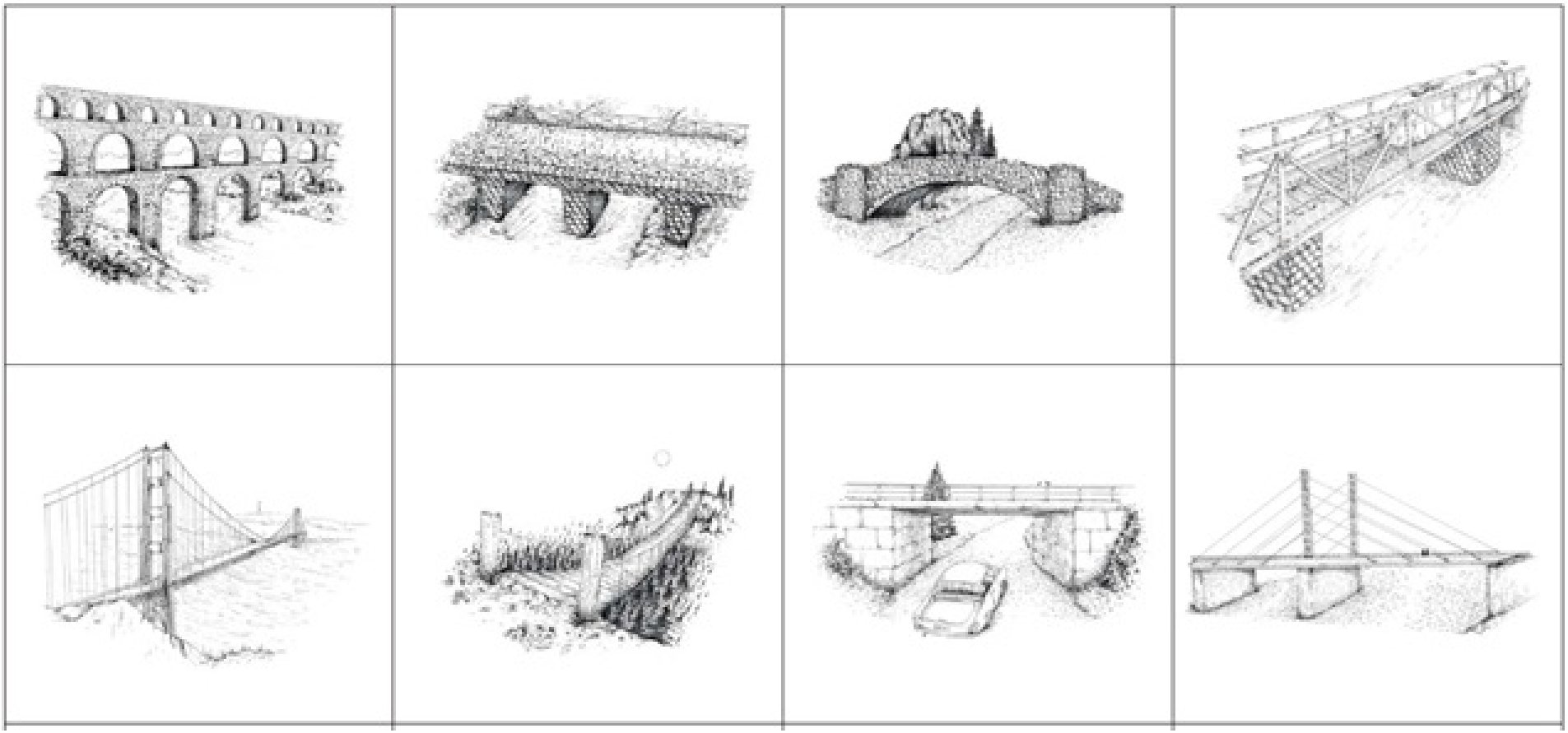
Male die verschiedenen Brückenarten aus.